LIBRIS | We know books

Dora Laura Viziteu

AVENTURI ÎN VACANȚĂ cu FLOPPY

JOCURI ȘI EXERCIȚII PENTRU CEI MICI

CLASA a II-a

Editura Nomina

LIBRIS We know books

În excursie la munte

1. Bifează în caseta care conține cuvântul scris corect:

Ghivecele cu ☐ mixandre răspândeau un miros plăcut.
☐ micsandre

Bagajele erau ☐ ticsite cu mâncare și haine.
☐ tixite

În tren era ☐ ecsagerat de cald.
☐ exagerat

În ☐ rucsac aveau toate lucrurile necesare.
☐ ruxac

Așteptau ☐ ecscursia cu nerăbdare de două luni.
☐ excursia

Călătorii erau ☐ exasperați de întârzierea trenului.
☐ ecsasperați

Floppy și prietenii lui au plecat în excursie la munte. Înainte de a se așterne la drum, au trecut pe la un magazin de articole sportive. Plici nu avea cort și îi lipseau 12 lei pentru a-și cumpăra unul. Floppy, Rizi, Grumy și Beny au pus mână de la mână pentru a-l ajuta pe Plici. Știi cu cât a trebuit să contribuie fiecare în mod egal?

2. Ajunși la poalele muntelui, excursioniștii și-au instalat corturile, conform schemei de mai jos:

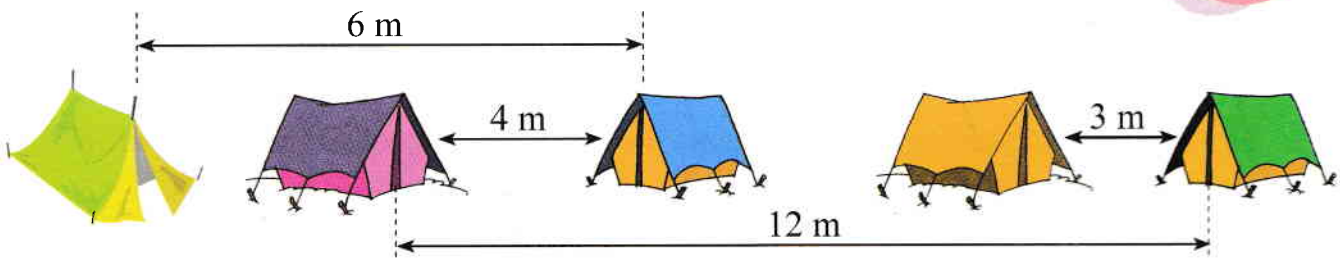

Floppy și-a așezat cortul în stânga lui Rizi. Cortul lui Rizi se află în stânga cortului lui Beny, care este situat la dreapta cortului lui Grumy. Plici este primul din stânga.

Al cui este fiecare cort? Care este distanța dintre primul și ultimul cort?

LIBRIS We know books

3. Cei 5 prieteni au plecat zilnic în drumeții. În prima zi au parcurs 15 km, a doua zi cu 9 km mai puțin, iar a treia zi cât în primele două la un loc.
Câți km au parcurs în total?

4. Plici adună frunze pentru ierbar. Colorează-le pe cele corespunzătoare categoriei indicate și vei descoperi câte frunze a adunat el. Scrie numărul în casetă. ☐

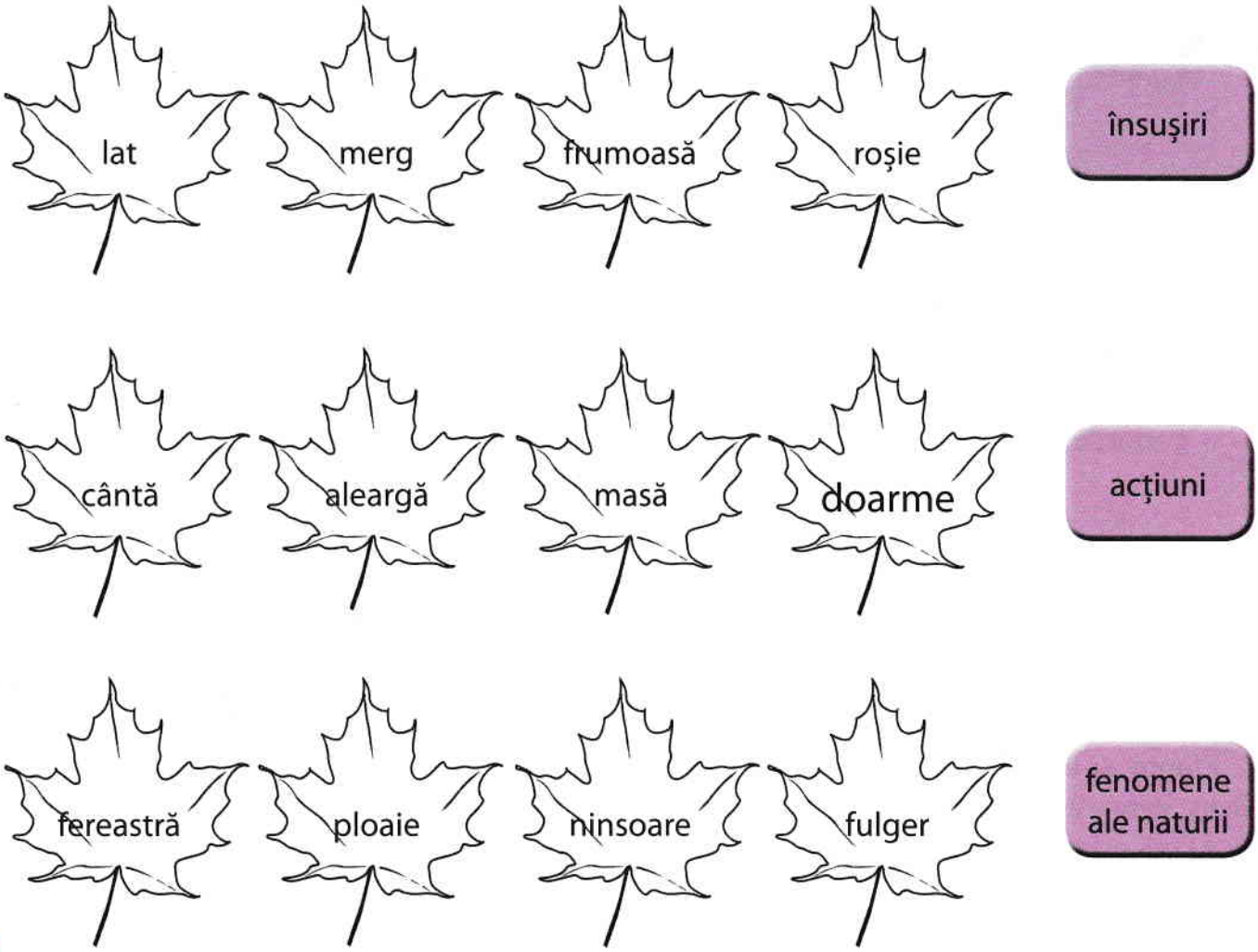

LIBRIS We know books

5. Grumy a văzut în pădure 5 iepuri, de 4 ori mai multe veverițe, iar căprioare cât jumătate din numărul veveriților.
Câte animale a văzut Grumy?

6. Tot hoinărind prin pădure, Grumy a ajuns într-o poiană. O veveriță, un iepure și o vulpe se certau în jurul unui cântar. Grumy a intervenit, încercând să-i împace, dar nu a reușit să-i lămurească. Îl poți ajuta?





Câte veverițe cântăresc cât cumătra vulpe?

Cine are dreptate? Colorează casetele care conțin afirmații corecte.